1 *Traduis en écriture mathématique puis illustre avec une figure les expressions suivantes :*

a. le segment qui a pour extrémités G etH; .....

b. la droite passant par Met R; .....

c. la demi-droite d'origine E passant par D. .....

2 *illustre avec une figure les expressions mathématiques suivantes :*

a. [OB) **b.** [MN] **c.** (AC) **d.** [Ox)

3 *Nomme la partie de la droite qui a été repassée en gras :*

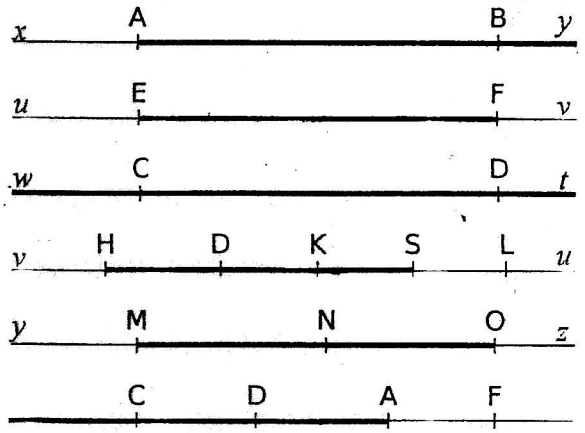

.....
.....
.....
.....
.....
.....

4 *Repasse en couleur la partie de la droite correspondante :*



[AC)
[AR]
[Dw)
[RH]
(DA)
(Gz)

5 *Sur cette figure, repasse :*

a. en bleu, [AC] ;

b. en rouge, (Bv) ;

c. en vert, [Bz).

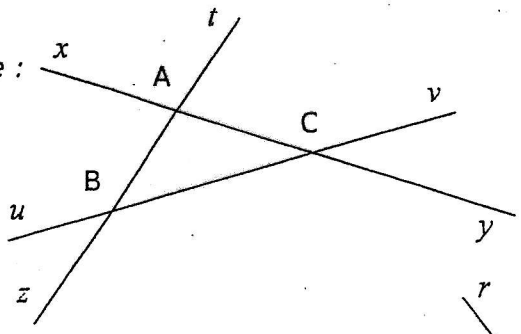

6 *Sur cette figure, repasse :*

a. en bleu, [KP] ;

b. en rouge, [Ks) ;
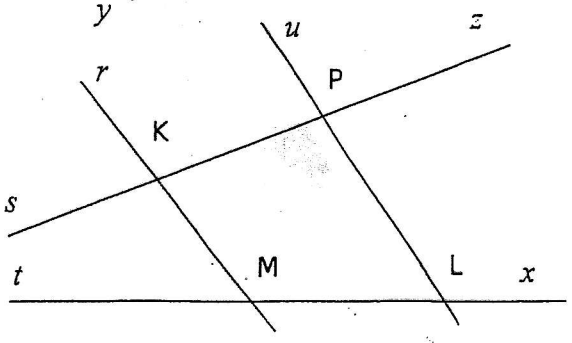
c. en vert (Mx).